Международная олимпиада молодежи – 2021

ДЕМОНСТРАЦИОННЫЙ ВАРИАНТ ОЛИМПИАДНЫХ ЗАДАНИЙ ПО НАПРАВЛЕНИЮ «ВОСТОКОВЕДЕНИЕ»

для 10 класса

Время выполнения заданий – 120 минут
Максимальная оценка – 100 баллов

Часть I. *(16 баллов)*

Задания 1.1 – 1.8 *(1 балл за вопрос)*
Выберите из предложенных вариантов ответа <u>единственно</u> верный:

1.1. Правящая династия какого из перечисленных китайских государств включала только одного императора?
1. Цинь
2. Синь
3. Цин
4. Сун

1.2. Что из перечисленного не относится к результатам правления Асикага Ёсимицу?
1. Установление дипломатических отношений с Китаем
2. Сооружение «Золотого павильона»
3. Примирение Южного и Северного дворов
4. Свержение императора Го-Дайго

1.3. Какая из перечисленных гор является высшей точкой территории Республики Корея?
1. Халласан
2. Пэктусан
3. Вораксан
4. Каясан

1.4. К какому региону относится Мальдивская республика?
1. Южная Азия
2. Юго-Восточная Азия
3. Западная Азия
4. Восточная Азия

1.5. В каком из перечисленных городов никогда не располагалась столица Японии?
1. Нара
2. Киото
3. Токио
4. Кобэ

1.6. Где располагается родина Конфуция?

1. Цюйфу
2. Чанъань
3. Пекин
4. Цзинчжоу

1.7. Где располагалась столица халифата Омейядов?

1. Багдад
2. Мекка
3. Дамаск
4. Куфа

1.8. Как звали первого премьер-министра Японии?

1. Сайго Такамори
2. Ито Хиробуми
3. Окума Сигэнобу
4. Итагаки Тайсукэ

Задания 1.9 – 1.12 *(2 балла за вопрос)*

Из предложенных вариантов выберите <u>ДВА</u> верных ответа на каждый из вопросов.

1.9. Правители каких китайских династий не относятся к этническим китайцам?

1. Мин
2. Цин
3. Цинь
4. Юань
5. Сун

1.10. Какие из перечисленных религий исповедуются большинством населения Японии?

1. Синто
2. Буддизм направления Махаяны
3. Буддизм направления Тхеравады
4. Католицизм
5. Протестантизм

1.11. Кто из перечисленных мыслителей Китая считается представителем легизма?

1. Сюньцзы
2. Мэнцзы
3. Хань Фэй
4. Шан Ян
5. Лаоцзы

1.12. Какие территории были переданы европейскими странами КНР в конце 1990-х гг.?

1. Тайвань
2. Гонконг

3. Далянь
4. Шанхай
5. Макао

Часть II. *(24 балла)*

Задания 2.1. – 2.4. *(6 баллов за вопрос)*

Соотнесите данные буквенной и цифровой частей каждого задания. Ответ запишите в виде последовательности цифр и соответствующих им букв (без пробелов и каких-либо символов) в специальной форме <u>внизу вопроса</u>. ***Например:***

1	**А**	**2**	**Б**	**3**	**В**	**4**	**Г**

2.1. Соотнесите автора и произведение классической японской литературы:

1	Мурасаки Сикибу	А	Записки у изголовья
2	Сэй Сёнагон	Б	Дневник эфемерной жизни
3	Митицуна-но хаха	В	Повесть о сиятельном принце Гэндзи
4	Ки-но Цураюки	Г	Дневник путешествия из Тоса

2.2. Соотнесите названия стран Ближнего Востока и их столицы:

1	Йемен	А	Манама
2	Иордания	Б	Сана
3	Оман	В	Амман
4	Бахрейн	Г	Маскат

2.3. Соотнесите вид ранней письменности и цивилизацию:

1. 
2.
3.
4.

А. 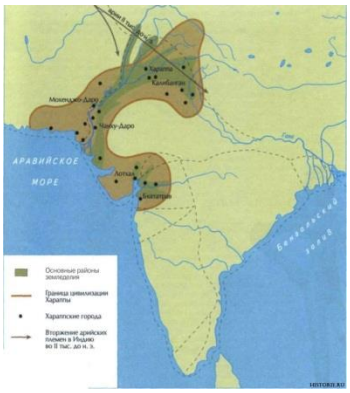

Б.

В. 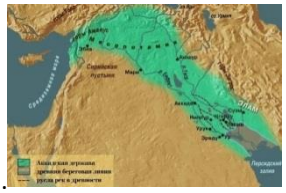
Г. 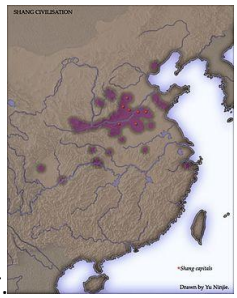

2.4. Соотнесите религию и изображение ее храма:

1. Ислам
2. Буддизм
3. Синто
4. Даосизм

А.
Б.

В.
Г.

Часть III. *(60 баллов)*

Выберите и выполните <u>ТОЛЬКО ОДИН</u> из блоков заданий данной Части:

Блок 1. «Ближний Восток»

Напишите краткое эссе ПО ОДНОЙ из предложенных тем:

1. Отношение к представителям других религий в исламе
2. Суфизм в культуре исламских народов
3. Исламское право на современном Ближнем Востоке

Блок 2. «Китай»

Напишите краткое эссе ПО ОДНОЙ из предложенных тем:

1. Демографические проблемы КНР на современном этапе
2. Человек и общество в классической китайской философии
3. Роль Опиумных войн в истории Китая второй половины XIX в.

Блок 3. «Корея»

Напишите краткое эссе ПО ОДНОЙ из предложенных тем:

1. Перспективы объединения Корейского полуострова на современном этапе
2. Роль Пак Чонхи в послевоенной истории Кореи
3. Конфуцианство и буддизм в истории традиционной Кореи

Блок 4. «Япония»

Напишите краткое эссе ПО ОДНОЙ из предложенных тем:

1. Жанр дневника в японской классической литературе
2. «Японское экономическое чудо»: причины и социальные последствия
3. Режим самоизоляции в эпоху Токугава: причины и последствия

Эссе: Блок № _____ Тема № _____